30

情報処理能力

解答は115ページ

お金はいくら？

解いた日
月　日

かかった時間
約　分

さまざまな額の硬貨やお札がバラバラに置かれています。それぞれの合計額はいくらになるでしょうか。

① 答 ＿＿＿＿ 円

② 答 ＿＿＿＿ 円



③ 答 ＿＿＿＿ 円

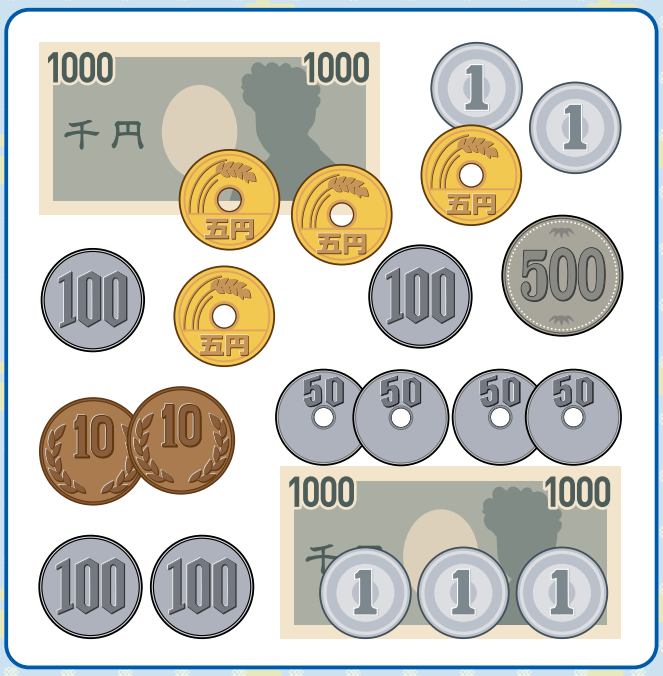

④ 答 ＿＿＿＿ 円



作文しよう！ 手紙

CHECK

この正方形は5cm×5cmです。型紙を出力後、正式なサイズで出力されているかの目安にご利用ください。

5cm×5cm